家庭学習表　　5年　　組　名前

時間	教科	4月15日 体温　　℃ 学習内容	教科	4月16日 体温　　℃ 学習内容	教科	4月17日 体温　　℃ 学習内容	教科	4月20日 体温　　℃ 学習内容	教科	4月21日 体温　　℃ 学習内容
1	国語	教科書P１０ 「水平線」 音読と試写	国語	教科書P１２ 「うぐいす」 音読と試写	国語	教科書P１４ 「いつか、大切なところ」 音読と分からない言葉をノートに書く。	国語	教科書P１４ 「いつか、大切なところ」 音読と初めて読んだ感想をノートに書く。	国語	教科書P４２ 「4年生で学んだ漢字①」 絵の中の言葉や線の漢字を使って、文を書く。
2	算数	○4年生の教科書や計算ドリルを使って4年生までの計算の復習をする。 参考：ちばっこチャレンジ100	算数	○4年生の教科書や計算ドリルを使って4年生までの計算の復習をする。 参考：ちばっこチャレンジ100	算数	○4年生の教科書や計算ドリルを使って4年生までの計算の復習をする。 参考：ちばっこチャレンジ100	算数	○4年生の教科書や計算ドリルを使って4年生までの計算の復習をする。 参考：ちばっこチャレンジ100	算数	○4年生の教科書や計算ドリルを使って4年生までの計算の復習をする。 参考：ちばっこチャレンジ100
3	理科	天気の変化 「天気の変化と雲のようすには、関係があるのだろうか。」 観察1　1日目	音楽	教科書P８０～８１ 「音楽の歴史を作った人」を読む。	理科	天気の変化 「天気の変化と雲のようすには、関係があるのだろうか。」 観察1　2日目	理科	天気の変化 「天気の変化には、決まりのようなものがあるのだろうか。」	理科	天気の変化 「天気の変化には、決まりのようなものがあるのだろうか。」
4	社会	世界の国旗について調べてみよう！（その1）	社会	世界の国旗について調べてみよう！（その2）	社会	世界の大陸と主な海洋	社会	「世界から見た日本の国土はどこにあり、どのように広がっているのでしょうか」 調べ学習	社会	「世界から見た日本の国土はどこにあり、どのように広がっているのでしょうか」 調べ学習の続き
一言日記										

添付してあるプリントを印刷したり、参考にしたりして取り組みましょう。ノートの見本がある学習は、5年生で配ったノートに書きましょう。
社会･･･黄色　　理科･･･緑色のノートです！国語は国語と書いてあります。　ノートのはじめのページはプリントをはるので、空けたままにして、見開きのページからはじめてください。

4 月 日 曜日

このページには、プリントをはる予定なので次のページから見本をみて書きましょう。

( )

スヌーピーのおもしろ学習メモ

耳

あらゆる音を集めるセンサー！

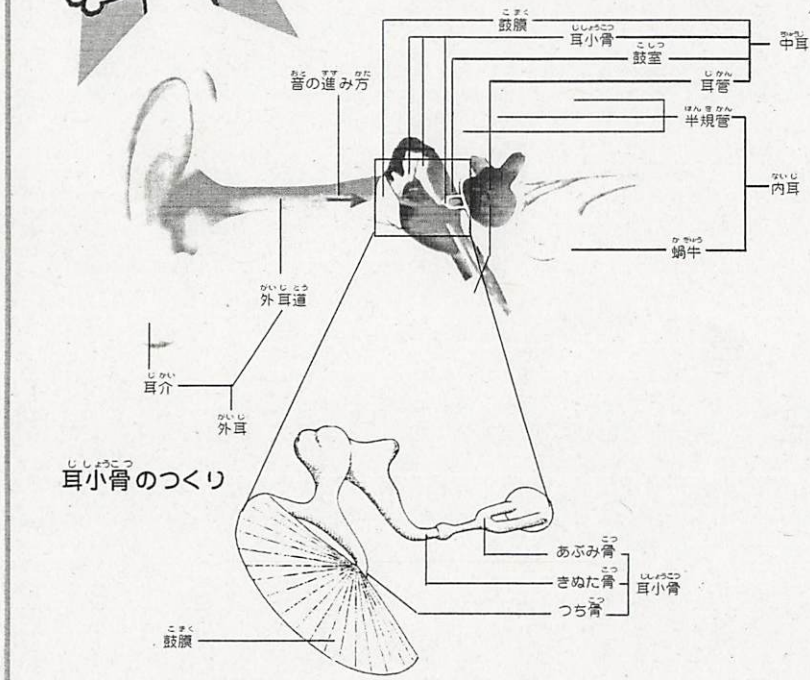

■耳の仕組みと働き■

鼓膜より外側の穴の部分を、**外耳道**といいます。この部分は、長さが2～3cmもあります。

耳に入った音は、まず、この外耳道を通って進み、いちばんおくにある**鼓膜**をふるわせます。鼓膜のふるえは、**耳小骨**でさらに大きなふるえとなり、カタツムリのような形をした**蝸牛**という部分に入ります。そして、蝸牛の中を伝わりながら信号に変えられ、**内耳神経**を通って脳に伝えられるのです。

© 2011 Peanuts Worldwide LLC

●主婦と生活社「こどもおもしろ学習館」より

科目シール

さんすう
こくご
せいかつか
れんらくちょう
算　数
国　語
理　科
社　会
連絡帳



月　日　No

このページには
プリントをはる
予定なので、
次のページから
見本をみて書き
ましょう。(算・社・理)

4月15日 水曜日

水平線

小泉 周二

題名と一連の間は、空ける

水平線がある
一直線にある
ゆれているはずなのに
一直線にある

連と連の間は1行空ける

水平線がある
はっきりとある
空とはちがうぞと
はっきりとある

水平線がある
どこまでもある
ほんとうの強さみたいに
どこまでもある

※うぐいすも同じ

4月16日 木曜日

うぐいす

武鹿 悦子

うぐいすのこえ

※右と同じ

小４　算数「四則計算」１　　組　番　氏名

（１）次の計算をしましょう。（とちゅうの式も書きましょう。）

①　１６－１２＋４

②　１６＋１２－４

③　１６÷８×２

④　１６÷８÷２

⑤　１６×８÷２

⑥　①から⑤の計算からわかったことをまとめましょう。

（２）次の計算をしましょう。（とちゅうの式も書きましょう。）

①　１６＋８×２

②　１６－８×２

③　１６÷８－２

④（１），（２）の計算からわかる計算のきまりをまとめましょう。

小４　算数「四則計算」１　解答・解説

（１）次の計算をしましょう。（とちゅうの式も書きましょう。）

①　１６－１２＋４
＝４＋４
＝８

②　１６＋１２－４
＝２８－４
＝２４

③　１６÷８×２
＝２×２
＝４

④　１６÷８÷２
＝２÷２
＝１

⑤　１６×８÷２
＝１２８÷２
＝６４

⑥　①から⑤の計算からわかったことをまとめましょう。

（例）
・＋，－の式は左から順に計算する。
・×，÷の式は左から順に計算する。

【ポイント】
中の式を書いて，計算のポイントや間違えやすい部分を⑥にまとめることが大切です。いつも計算する順番に注意ましょう。

（２）次の計算をしなさい。（とちゅうの式も書きなさい。）

①　１６＋８×２
ここを先に計算
＝１６＋１６
＝３２

②　１６－８×２
ここを先に計算
＝１６－１６
＝０

③　１６÷８－２
ここを先に計算
＝２－２
＝０

④　（１）（２）の計算からわかる計算のきまりをまとめましょう。

（例）
・＋，－の式は左から順に計算する。
・×，÷の式は左から順に計算する。
・＋，－と×，÷のまじった式は，×，÷を先に計算する。

【ポイント】
・ふだんの授業から「自分の言葉で」まとめる習慣をつけましょう。

小４　算数「四則計算」２　　組　番　氏名

（１）次の①②計算の答えは，まちがっています。まちがったわけを説明しましょう。
また，正しい答えを求めましょう。

①　２０＋１５÷５＝７

②　２４÷２－３×４＝３６

③　１３－（６＋３）＝１０

（２）次の計算をしましょう。

①　２０－１０＋２

②　２０－（１０＋２）

③　２０－（１０÷２）

④　２０－１０÷２

⑤　２０÷１０×２

⑥　２０÷（１０×２）

小４　算数「四則計算」解答・解説

（１）次の①②計算の答えは，まちがっています。まちがったわけを説明しましょう。
また，正しい答えを求めましょう。

①　２０＋１５÷５＝７

（わけ）
１５÷５を先に計算しなければならないが，２０＋１５を先に計算し，それを５で割ったため，３５÷５＝７と計算してしまった。

（正しい答え）
２０＋１５÷５
ここを先に計算
＝２０＋３＝２３　（答え）２３

②　２４÷２－３×４＝３６

（わけ）
２４÷２を先に計算し次に３×４を計算して，その計算した数同士をひき算するところを，２４÷２の計算の後，３をひいて，４をかけたため３６になった。

（正しい答え）
２４÷２－３×４
ここを先に計算　次にここを計算
＝１２－１２
＝０

③　１３－（６＋３）＝１０

（わけ）
（　　）の中を先に計算するところ，１３－６＝７，７＋３＝１０と計算してしまった。

（正しい答え）
１３－（６＋３）
＝１３－９
＝４

（２）次の計算をしましょう。

①　２０－１０＋２
＝１０＋２
＝１２

②　２０－（１０＋２）
ここを先に計算
＝２０－１２
＝８

③　２０－（１０÷２）
ここを先に計算
＝２０－５
＝１５

④　２０－１０÷２
ここを先に計算
＝２０－５
＝１５

⑤　２０÷１０×２
＝２×２
＝４

⑥　２０÷（１０×２）
ここを先に計算
＝２０÷２０
＝１

【ポイント】
「間違った問題に×を付けることで終わり」とするのではなく，なぜ間違えたのか，どこで間違えたのかということを意識しましょう。
とくに，四則混合計算は繰り返し計算練習に取り組むことが大切です。
また，（　）のついた式は，順序よく計算しましょう。

天気の変化

天気の変化と雲のようすには、関係があるのだろうか。

〈予想〉
・雨がふるときには、必ず雲がある。
・
・
・

〈計画〉
・観察する場所…同じ場所(変えない)
・観察する回数…時間を変えて観察する。
・観察すること…天気、雲の形・量・色・どのように動いているか。

〈観察1〉
雲のようすと天気を記録する。

〈結果〉

4/15( )	午前10時	午後2時
雲の形		
雲の量		
雲の動き		
天気		

4/17( )	午前10時	午後2時
雲の形		
雲の量		
雲の動き		
天気		

わかったことやまとめは後日みんなでやります。

家庭学習のすすめ（家庭学習について考えよう）　　年　　月　　日

社会科　No

氏名

世界の国旗について調べてみよう！（その1）

◎　どこの国の国旗かな？（基礎編）



①国名

※ヒント
赤と白の横線は独立した時の１３の州の数を、星は現在の州の数をしめしています。

②国名

※ヒント
この国では、ハングル文字が使われています。正式国名は漢字で四文字です。

③国名

※ヒント
この国では、イスラム教が国の宗教とされています。日本はこの国から石油をたくさん輸入しています。

④国名

※ヒント
２０１０年にこの国でサッカーW杯が開催されました。アフリカ大陸の南にある国です。

次の⑤～⑧は、どこの国の国旗かな。下から選んで、記号（ア～エ）を書き込もう。

⑤記号　　⑥記号　　⑦記号　　⑧記号



ア、アルゼンチン　　イ、インド　　ウ、スイス　　エ、ツバル

（注意）国旗の縦横の長さなどは正式なものとは限りません

世界の国旗について調べてみよう！（解答編）

その１

◎どこの国の国旗かな？（基礎編）

① アメリカ合衆国（アメリカ、米国）

② 大韓民国（韓国）

③ サウジアラビア

④ 南アフリカ共和国

ここからは、難しくなります・・・でも、中学生になってからも学習する国々です。

⑤ エ（ツバル）　太平洋にある島国です。
温暖化による海面上昇で、海にしずんでしまう危険があります。

⑥ ア（アルゼンチン）　日本のちょうど裏側にある国です。
首都はブエノスアイレスです。

⑦ イ（インド）　人口が世界で２番目に多い国です（約１２億人です）。
ヒンドゥー教を、多くの人が信こうしています。

⑧ ウ（スイス）　正方形の赤地に白の十字マークが描かれてます。
白地に赤の十字マークは「赤十字」です。

（出典：国旗については、外務省のホームページより掲載）

小４　算数「四則計算」３　　組　番　氏名

（１）チーバくんは，近所のお店で，１５０円のジュースを３本買うために５００円玉を出しました。おつりはいくらになりますか。式と答えを書きましょう。

（式）	（答え）　　円

（２）次の①～③の計算をしましょう。

①　１６÷８×２

②　１６÷（８×２）

③　１６＋８×２

④　いろいろな計算のまじっている式の，計算の順序のきまりを書きましょう。

（３）　次の□の中に＋，－，×，÷を使って次の式を完成させましょう。
ただし，（　　）は使ってもよいものとします。

①　4□4□4＝2

②　4□4□4＝3

③　4□4□4＝4

④　4□4□4＝5

小４　算数「四則計算」３　解答・解説

（１）チーバくんは，近所のお店で，１５０円のジュースを３本買うために５００円玉を出しました。おつりはいくらになりますか。式と答えを書きましょう。

（式）５００－１５０×３ ここを先に計算 ＝５００－４５０ ＝５０	（答え）　５０　円

（２）次の①～③の計算をしましょう。

①　１６÷８×２
＝２×２
＝４

②　１６÷（８×２）
ここを先に計算
＝１６÷１６
＝１

③　１６＋８×２，
ここを先に計算
＝１６＋１６
＝３２

④　いろいろな計算のまじっている式の計算の順序のきまりを書きましょう。

・（　　）のついた式は，カッコの中から先に計算します。
・×，÷，＋，－のまじった式では，×，÷を先に，＋，－を後に計算します。

（３）　次の□の中に＋，－，×，÷を使って次の式を完成させましょう。
ただし，（　　）は使ってもよいものとします。

①　４□４□４＝２　（答え）　（４＋４）÷４＝２

②　４□４□４＝３　（答え）　４－（４÷４）＝３

③　４□４□４＝４　（答え）　４＋４－４＝４　４－４＋４
４÷４×４　４×４÷４
４＋（４－４）　４－（４－４）
４÷（４÷４）　４×（４÷４）

④　４□４□４＝５　（答え）　４÷４＋４＝５　４＋４÷４

【ポイント】
答えは１つではありません。いくつもの解答を見つけてみましょう。
４□４□４□４の計算では，０～９までの数を作ることができます。

小４　算数「１けたでわるわり算の筆算１」　　組　　番氏名

１　次の計算をしましょう。

（１）３００÷５　　（２）４９００÷７

２　筆算で計算しましょう。

（１）３６÷２

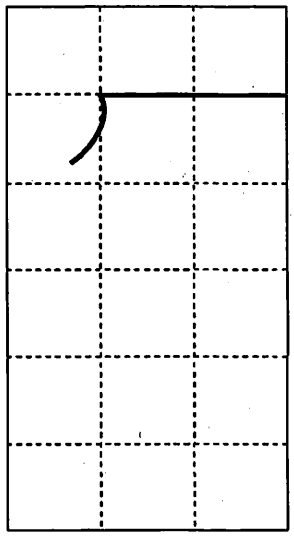

（２）７７÷３

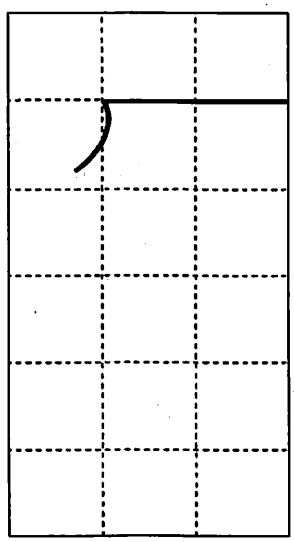

（３）８２÷４

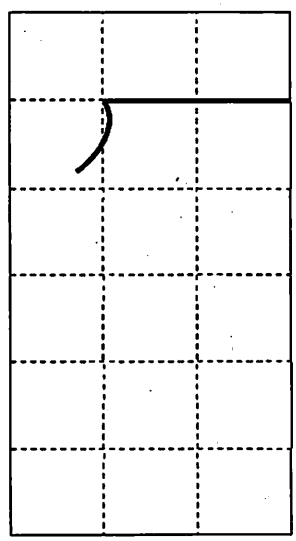

（４）９６÷４　　（５）８６÷５　　（６）６０÷６

３　58まいの色紙を，１人に３まいずつ配ると，何人に分けられて，何まいあまりますか。答えのたしかめもしましょう。

（式）

答え＿＿＿＿＿＿＿＿＿＿＿＿＿＿＿＿

（答えのたしかめ）

筆算

小４　算数「１けたでわるわり算の筆算１」解答・解説

１　次の計算をしましょう。

（１）３００÷５＝６０　　（２）４９００÷７＝７００

２　筆算で計算しましょう。

（１）３６÷２

	1	8
2)	3	6
	2	
	1	6
	1	6
		0

（２）７７÷３

	2	5
3)	7	7
	6	
	1	7
	1	5
		2

（３）８２÷４

	2	0
4)	8	2
	8	
		2
		0
		2

（４）９６÷４

```
    2 4
4 ) 9 6
    8
    1 6
    1 6
      0
```

（５）８６÷５

```
    1 7
5 ) 8 6
    5
    3 6
    3 5
      1
```

（６）６０÷６

```
    1 0
6 ) 6 0
    6
      0
      0
      0
```

ここがポイント!
☆わり算の筆算は大きい位から計算します。

３　58まいの色紙を，１人に３まいずつ配ると，何人に分けられて，何まいあまりますか。答えのたしかめもしましょう。

（式）　５８÷３＝１９あまり１

答え　１９人に分けられて，１まいあまる。

（答えのたしかめ）

$\boxed{3}$ × $\boxed{19}$ ＋ $\boxed{1}$ ＝ $\boxed{58}$

わる数　商　あまり　わられる数

【筆算】

```
    1 9
3 ) 5 8
    3
    2 8
    2 7
      1
```

ここがポイント!
☆たてて，かけて，ひいて，おろすの順で計算します。

家庭学習のすすめ（家庭学習について考えよう）　　年　　月　　日

社会科　No

氏名

世界の国旗について調べてみよう！（その2）

◎　どこの国の国旗かな？（応用編）

※ヒント：①国旗の上にある数字に注目
②この下の文章や写真に注目

２０００

国名

←「日本からずっと南に進むと･･･」

２００４

国名

←「第１回もこの国で･･･」

２００８

国名

←「人口が世界一のこの国でも･･･」

２０１２

国名

→

この時の開会式の様子です

２０１６

国名

→「次回の開催国（かいさいこく）です」

２０２０



国名

→

開催決定直前の様子です

（注意）国旗の縦横（たてよこ）の長さなどは正式なものとは限りません

世界の国旗について調べてみよう！（解答編）

その２

◎どこの国の国旗かな？（応用編）　※夏季オリンピックが４年に１回開かれていることをヒントに調べてみましょう。

２０００（年）	オーストラリア	
２００４	ギリシャ	
２００８	中華人民共和国（中国）	
２０１２	イギリス	←ロンドンでオリンピックが開催されました。(写真はロンドンオリンピックの開会式の様子です)
２０１６	ブラジル	
２０２０	日本	→２０１３年９月に日本開催が決定しました。(写真はパブリックビューイングの様子です)

（出典：国旗については、外務省のホームページより掲載）

4月17日 金 曜日

いつか、大切なところ

魚住直子 文
くまおり純 絵

① 音読をして、わからない言葉を書き出しましょう。
（調べられる人は、調べてみましょう。）

（例）

語句	意味
転勤	
常夜灯	

4月20日 月 曜日

感想

② 「いつか、大切なところ」を読んだ感想を書きましょう。

小４　算数「１けたでわるわり算の筆算２」　　組　　番氏名

１　次の計算を筆算でしましょう。

（１）８９４÷６　　（２）７２５÷３　　（３）５４９÷５

（４）３２８÷５　　（５）２４４÷８　　（６）７０７÷７

２　暗算でしましょう。

（１）６４÷４　　（２）９０÷５

３　□にあてはまる数を書きましょう。

（１）

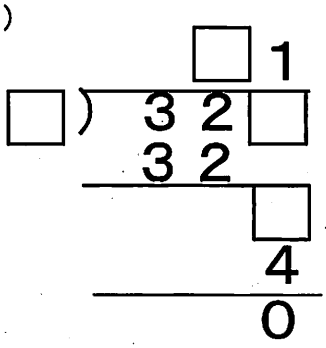

（２）

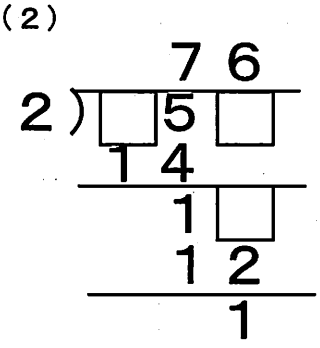

小４　算数「１けたでわるわり算の筆算２」解答・解説

１　次の計算を筆算でしましょう。

（１）８９４÷６

```
    1 4 9
6 ) 8 9 4
    6
    2 9
    2 4
      5 4
      5 4
        0
```

（２）７２５÷３

```
    2 4 1
3 ) 7 2 5
    6
    1 2
    1 2
        5
        3
        2
```

（３）５４９÷５

```
    1 0 9
5 ) 5 4 9
    5
      4
      0
      4 9
      4 5
        4
```

答えに０がたつときの部分のかけ算は省略してもいいです。

```
    1 0 9
5 ) 5 4 9
    5
      4 9
      4 5
        4
```

（４）３２８÷５

```
      6 5
5 ) 3 2 8
    3 0
      2 8
      2 5
        3
```

答えに０がたつときの部分のかけ算は省略してもいいです。

```
      3 0
8 ) 2 4 4
    2 4
        4
```

（５）２４４÷８

```
      3 0
8 ) 2 4 4
    2 4
        4
        0
        4
```

（６）７０７÷７

```
    1 0 1
7 ) 7 0 7
    7
      0
      0
        7
        7
        0
```

答えに０がたつときの部分のかけ算は省略してもいいです。

```
    1 0 1
7 ) 7 0 7
    7
        7
        7
        0
```

２　暗算でしましょう。

（１）６４÷４＝１６　　（２）５８÷２＝２９

３　□にあてはまる数を書きましょう。

（１）

```
        [8] 1
[4] ) 3 2 [4]
      3 2
          [4]
          4
          0
```

ここから，みつけられます。
□－４＝０

（２）

```
        7 6
2 ) [1] 5 [3]
    1 4
      1 [3]
      1 2
        1
```

ここから，みつけられます。
１□－１２＝１

小４　算数「一億をこえる数」　　組　　番 氏名＿＿＿＿＿＿＿＿

1　次の数をよみましょう。

（１）320383948　　（　　）

（２）95882300000000　　（　　）

2　次の数を数字でかきましょう。

（１）五百兆七百三億二千万九千八

（　　）

（２）１兆を８こ，１億を７こ，１万を４こあわせた数。

（　　）

（３）１億を３２こと，１０万を４０２こあわせた数。

（　　）

（４）１億を５７０こ集めた数。

（　　）

3　次の数を１０倍した数，１０でわった数をかきましょう。

	▼１０倍した数	▼１０でわった数
（１）７０００億	（　　）	（　　）
（２）６兆	（　　）	（　　）
（３）４兆１０００億	（　　）	（　　）

4　次のかけ算の答えを，筆算で求めましょう。

（１）５６８×２７３　　（２）１７５×４０５

5　３２×２８＝８９６を使って，答えを求めましょう。

（１）３２万×２８万　　（２）３２億×２８万

小４　算数「一億をこえる数」解答・解説

1　次の数をよみましょう。

（１）320383948　　（　三億二千三十八万三千九百四十八　）

（２）95882300000000　　（　九十五兆八千八百二十三億　　）

2　次の数を数字でかきましょう。

（１）五百兆七百三億二千万九千八

（　500070320009008　）

（２）１兆を８こ，１億を７こ，１万を４こあわせた数。

（　8000700040000　　）

（３）１億を３２こと，１０万を４０２こあわせた数。

（　3240200000　　）

（４）１億を５７０こ集めた数。

（　57000000000　　）

【解説】
９５８８２３０００００００００
兆　億　万
右から順に４けたごとに区切るとよみやすくなります。

3　次の数を１０倍した数，１０でわった数をかきましょう。

		▼１０倍した数	▼１０でわった数
（１）	７０００億	（　７兆　）	（　７００億　）
（２）	６兆	（　６０兆　）	（　６０００億　）
（３）	４兆１０００億	（　４１兆　）	（　４１００億　）

4　次のかけ算の答えを，筆算で求めましょう。

（１）５６８×２７３

```
  568
 ×273
 1704
3976
1136
155064
```

（２）１７５×４０５

```
  175
 ×405
  875
700
70875
```

5　３２×２８＝８９６を使って，答えを求めましょう。

（１）３２万×２８万＝８９６億

【解説】
１万×１万＝１億 なので８９６を１億倍します。

（２）３２億×２８万＝８９６兆

【解説】
１億×１万＝１兆 なので８９６を１兆倍します。

世界の大陸と主な海洋

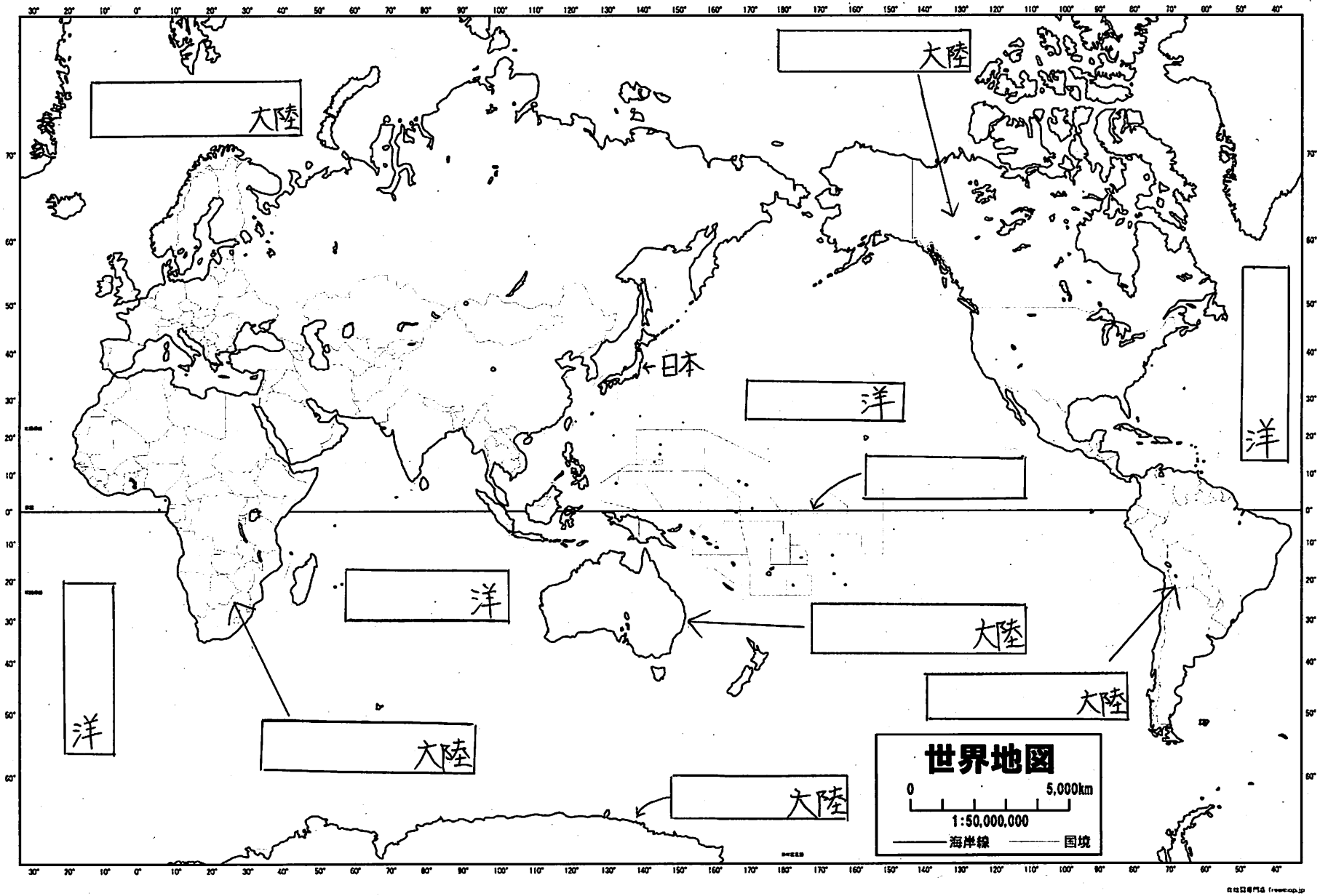

天気の変化のしかたには、きまりのようなものがあるのだろうか。

〈計画〉
天気の変化のしかたを調べるには、どうすればよいか考える。
・気象情報を集める。
・何日間か続けて調べる。

☆気象情報の集め方
・インターネットや新聞
・アメダスの雨量情報
・雲の画像　など

〈観察2〉
教科書P14、15の写真を見て、気象の変変を調べる。

〈結果〉
正午の気象衛星の雲画像からわかること
・
・
・

アメダスの雨量情報からわかること
・
・
・

各地の正午の天気からわかること
・
・
・

場所のちがいからわかること
・
・
・

まとめは後日
みんなでやります。

小４　算数「小数」１　　組　　番氏名

１　次の数をかきましょう。

（１）１を３こ，０．１を５こ，０．０１を６こ，０．００１を８こあわせた数。

（２）０．０１を２７５こ集めた数。

（３）０．０２９は０．００１を何こ集めたか。

（４）５．０１は０．００１を何こ集めたか。

２　次の数を下の数直線に表しましょう。

（１）０．０７　　（２）０．１５　　（３）０．１８３



３　次の数を１０倍した数，１０でわった数をかきましょう。

	▼１０倍した数	▼１０でわった数
（１）０．７	（　　）	（　　）
（２）３．５６	（　　）	（　　）
（３）０．０９	（　　）	（　　）

４　下の□に右のカードをあてはめて，次の数をつくりましょう。

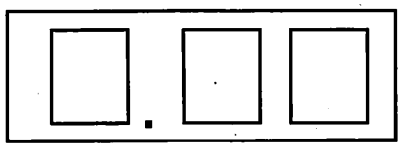

（１）いちばん大きい数
（　　）

（２）いちばん小さい数
（　　）

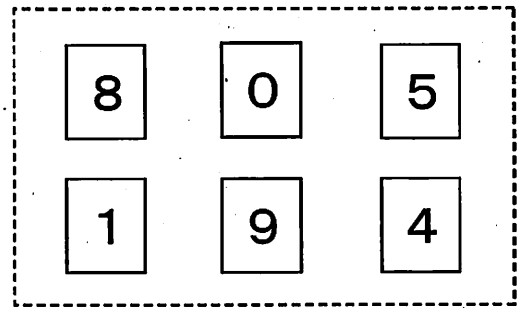

小４　算数「小数１」解答・解説

1　次の数をかきましょう。

（１）１を３こ，０．１を５こ，０．０１を６こ，０．００１を８こあわせた数。

３．５６８

（２）０．０１を２７５こ集めた数。

２．７５

（３）0.029は0.001を何こ集めたか。

２９ こ

（４）5.01は0.001を何こ集めたか。

５０１０ こ

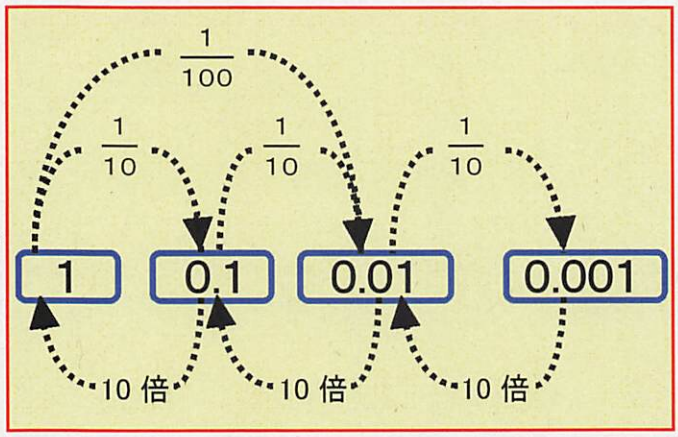

2　次の数を下の数直線に表しましょう。



3　次の数を１０倍した数，１０でわった数をかきましょう。

	▼１０倍した数	▼１０でわった数
（１）　０．７	（　７　）	（　０．０７　）
（２）３．５６	（　３５．６　）	（　０．３５６　）
（３）０．０９	（　０．９　）	（　０．００９　）

１０倍すると位が１つ上がります。

１０でわると位が１つ下がります。

4　下の□に右のカードをあてはめて，次の数をつくりましょう。

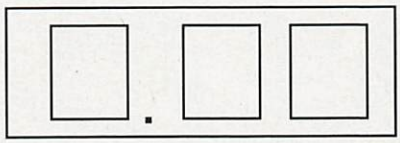

（１）いちばん大きい数

（　９．８５　）

（２）いちばん小さい数

（　０．１４　）

一の位からあてはめます。

(1) 大きい数 → 9. □□

(2) 小さい数 → 0. □□

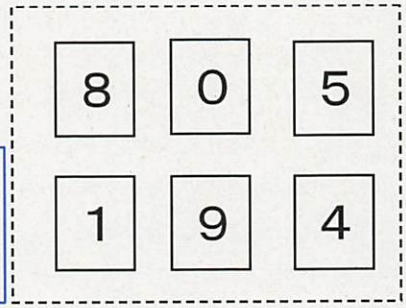

小４　算数「小数」２　　組　　番氏名＿＿＿＿＿＿＿＿＿＿

１　たし算をしましょう。

（１）　１．４３
　　＋３．２９

（２）　６．０３
　　＋４．０２

（３）　５
　　＋３．５１

（４）　８．４５
　　＋１．５５

２　次の計算を筆算でしましょう。

（１）６．０７＋０．２５　　（２）３．５２＋７　　（３）４．３８＋２．６２

３　ひき算をしましょう。

（１）　８．７６
　　－３．３２

（２）　６．２３
　　－５．８５

（３）　４．６３
　　－０．６

（４）　３
　　－１．３８

４　次の計算を筆算でしましょう。

（１）９．３７－８．５７　　（２）７．３９－３．３　　（３）５－３．２８

小４　算数「小数２」解答・解説

小数のたし算・ひき算のポイント！！
- ○ 位をそろえる
- ○ 小数点の位置に注意

1　たし算をしましょう。

（1）
1.43
＋3.29
4.72

（2）
6.03
＋4.02
10.05

（3）
5
＋3.51
8.51

5を5.00と考えます。
5.00
＋3.51

（4）
8.45
＋1.55
10.00

答えは10.00ではなく10にしましょう。

2　次の計算を筆算でしましょう。

（1）6.07＋0.25

6.07
＋0.25
6.32

（2）3.52＋7

3.52
＋7
10.52

（3）4.38＋2.62

4.38
＋2.62
7.00

3　ひき算をしましょう。

（1）
8.76
－3.32
5.44

（2）
6.23
－5.85
0.38

1の位に0をかいて答えは0.38

（3）
4.63
－0.6
4.03

0.6を0.60と考えます。

4.63
－0.60

（4）
3
－1.38
1.62

3を3.00と考えます。

4　次の計算を筆算でしましょう。

（1）9.37－8.57

9.37
－8.57
0.80

（2）7.39－3.3

7.39
－3.3
4.09

（3）5－3.28

5
－3.28
1.72

学 世界から見た日本の国土は、どこにあり、どのように広がっているのでしょうか。

〈調べたこと〉

・緯度…

経度…

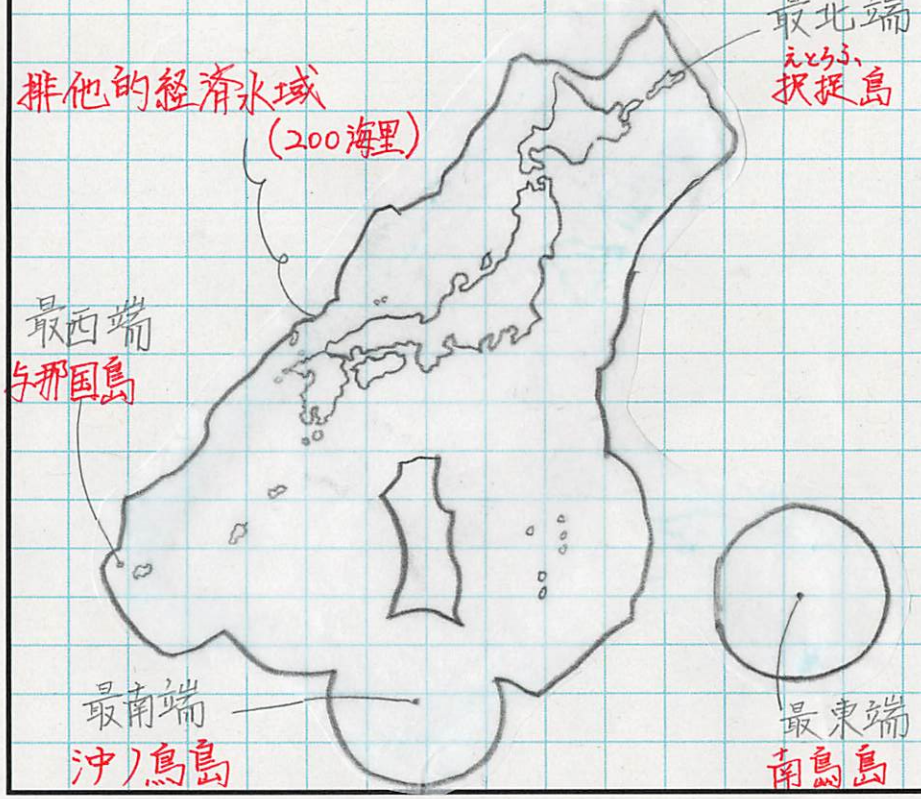

○日本の主な島々

4つの大きな島｛

小さい島も合わせると6800以上
※海岸線が100m以上ある。

○日本のまわりの海

○日本のまわりの国々

○領土をめぐる問題

北方4島…

竹島…

尖閣諸島…

ま つまり、

月　日　曜日

( )

4月21日 火 曜日

四年生で学んだ漢字①　P42

絵の中の言葉や一線の漢字を使って、文を作りましょう。

(例)・つな引きの対戦は、赤組が勝利をおさめた。

( )

小４　算数「２けたでわるわり算の筆算１」　　組　　番氏名

１　次の計算をしましょう。

（１）８０÷２０　　（２）７０÷２０

（３）４２０÷７０　　（４）６００÷９０

２　筆算で計算しましょう。

（１）６９÷２３

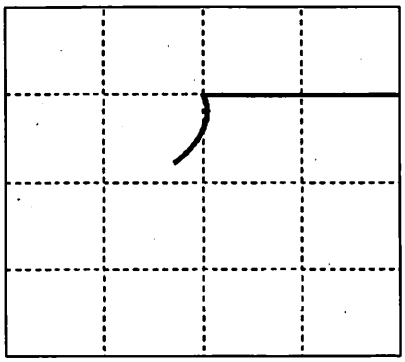

（２）９５÷１２

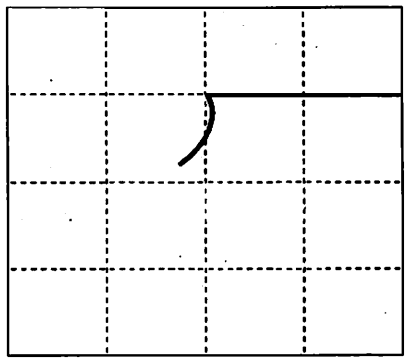

（３）６３４÷７８

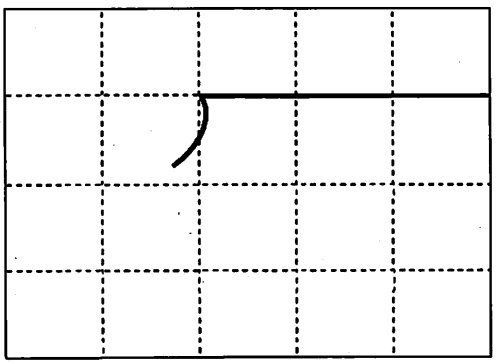

（４）４１２÷４２

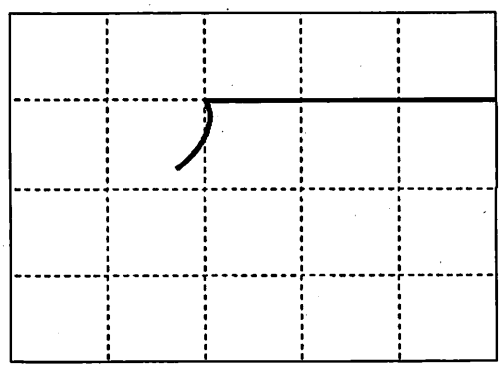

３　筆算で計算しましょう。

（１）９２÷２３　　（２）７８÷１４　　（３）２４７÷８３

小４　算数「２けたでわるわり算の筆算１」解答・解説

１　次の計算をしましょう。

（１）８０÷２０＝４

（２）７０÷２０＝３あまり１０

（３）４２０÷７０＝６

（４）６００÷９０＝６あまり６０

２　筆算で計算しましょう。

（１）６９÷２３

			3
2	3	6	9
		6	9
			0

（２）９５÷１２

			7
1	2	9	5
		8	4
		1	1

（３）６３４÷７８

				8
7	8	6	3	4
		6	2	4
			1	0

（４）４１２÷４２

				9
4	2	4	1	2
		3	7	8
			3	4

商の見当をつけると，４１÷４で１０になります。
このようなときは，まず，９をたてましょう。

３　筆算で計算しましょう。

（１）９２÷２３

```
      4
  23 ) 92
       92
        0
```

（２）７８÷１４

```
      5
  14 ) 78
       70
        8
```

（３）２４７÷８３

```
      2
  83 ) 247
       166
        81
```

【解説】見当をつけた商が大きすぎたときは，１ずつ小さくしてみましょう。

小４　算数「２けたでわるわり算の筆算２」　　組　　番氏名

１　筆算で計算しましょう。

（１）４３５÷２９　　（２）３９５÷３５　　（３）８２７÷２７

（４）５６８４÷４５　　（５）８４２４÷３１２　　（６）６２３９÷４７２

２　例を参考に，わり算のきまりを使ってくふうして計算しましょう。

例　２４０÷６０＝４

÷１０　　÷１０

２４　÷　６　＝４

（１）６５００÷５００＝□

÷１００　　÷１００

□　÷　□　＝　□

（２）２８０００÷４０００＝□

÷□　　÷□

２８　÷　４　＝　□

小４　算数「２けたでわるわり算の筆算２」解答・解説

１　筆算で計算しましょう。

（１）４３５÷２９

```
      １５
２９)４３５
    ２９
    １４５
    １４５
        ０
```

（２）３９５÷３５

```
      １１
３５)３９５
    ３５
      ４５
      ３５
      １０
```

（３）８２７÷２７

```
      ３０
２７)８２７
    ８１
      １７
        ０
      １７
```

商が２けたになる筆算の仕方　ポイントは商のたつ位置です。
① ４÷２９では，百の位に商はたたない
② ４３÷２９で，商は十の位からたつ
③ たてる→かける→ひく→おろすを繰り返す

（４）５６８４÷４５

```
      １２６
４５)５６８４
    ４５
    １１８
      ９０
      ２８４
      ２７０
        １４
```

（５）８４２４÷３１２

```
      ２７
３１２)８４２４
    ６２４
    ２１８４
    ２１８４
        ０
```

（６）６２３９÷４７２

```
      １３
４７２)６２３９
    ４７２
    １５１９
    １４１６
      １０３
```

２　例を参考に，わり算のきまりを使ってくふうして計算しましょう。

例　２４０　÷　６０＝４
↓ ÷$\boxed{10}$　↓ ÷$\boxed{10}$
２４　÷　６　＝４

わり算では，わられる数とわる数を同じ数でわっても，商は同じになります。

（１）６５００÷５００＝$\boxed{13}$
↓ ÷100　↓ ÷100
$\boxed{65}$　÷　$\boxed{5}$　＝　$\boxed{13}$

（２）２８０００÷４０００＝$\boxed{7}$
↓ ÷$\boxed{1000}$　↓ ÷$\boxed{1000}$
２８　÷　４　＝　$\boxed{7}$